6	日本のすがた	年　組　番 名前	技 技　能　／12 問 知 知 識 ・ 理 解　／1 問

1　地図を見て，問いに答えなさい。

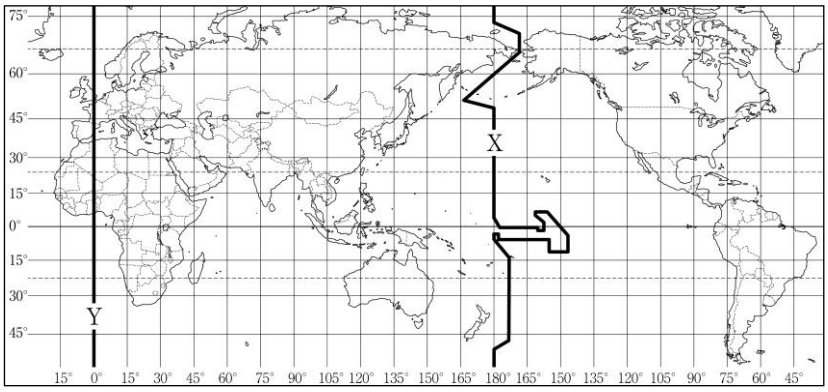

技 (1) 日本は，およそ（ a ）20 度～46 度，（ b ）122 度～154 度に位置しています。（ a ），（ b ）にあてはまる語句を書きなさい。

a（　　）　b（　　）

技 (2) 日本と①同緯度，②同経度に位置する国を，次から 2 つずつ選びなさい。

①（　　・　　）

②（　　・　　）

〔 イラン　ドイツ　イギリス　オーストラリア　スペイン　ブラジル　フィリピン 〕

技 (3) 地図中に X で示した，ほぼ 180 度の経線に沿って引かれた線を何といいますか。（　　）

技 (4) 地図中の Y は本初子午線を示しています。Y を標準時子午線とする国と，東経 135 度を標準時子午線とする日本とでは何時間の時差がありますか。（　　）

2　地図を見て，問いに答えなさい。

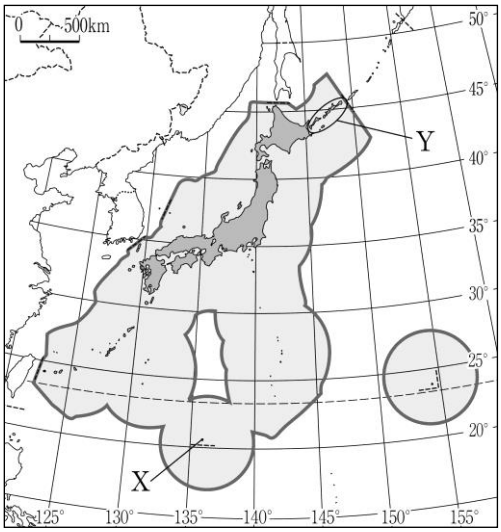

技 (1) 地図中にXで示した，日本の南端に位置する島を，次から1つ選びなさい。（　　）

〔 与那国島　沖ノ鳥島　南鳥島　択捉島 〕

技 (2) 地図中に Y で示した島々は，日本固有の領土ですが，現在はロシア連邦が占拠しています。この島々を何とよんでいますか。

（　　）

技 (3) 地図中に▭で示した水域の水産資源，鉱産資源などは日本が管理することができます。この水域を何といいますか。

（　　）

3　地図を見て，問いに答えなさい。

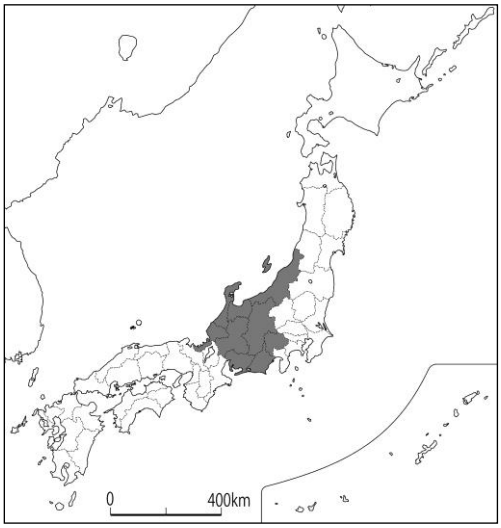

知 (1) 日本は1都1道2府43県で構成されています。2府にあてはまる名称を書きなさい。

（　　）（　　）

技 (2) 日本を7地方に区分したとき，①山形県，②島根県がふくまれる地方名を下から選びなさい。

①（　　）②（　　）

〔 北海道　東北　関東　中部　近畿　中国・四国　九州 〕

技 (3) 地図中に▭で示した中部地方はさらに地理的・歴史的な面から3つの地方に区分されます。中部地方の日本海側の地域を何といいますか。（　　）